月　　日　　曜日

証明確認テストー８　名前

⑧平行四辺形ＡＢＣＤの
ＢＥ＝ＤＦとなるよう
に２点Ｅ，Ｆをとると
ＡＥ＝ＣＦとなります。
これを証明せよ。

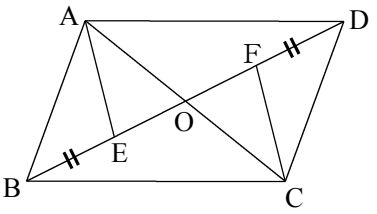

（仮定）

（結論）

（証明）

月　　日　　曜日

証明確認テストー８　名前

⑧平行四辺形ＡＢＣＤの
ＢＥ＝ＤＦとなるよう
に２点Ｅ，Ｆをとると
ＡＥ＝ＣＦとなります。
これを証明せよ。

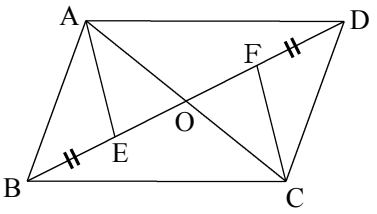

（仮定）

（結論）

（証明）

月　　日　　曜日

証明確認テストー８　名前

⑧平行四辺形ＡＢＣＤの
ＢＥ＝ＤＦとなるよう
に２点Ｅ，Ｆをとると
ＡＥ＝ＣＦとなります。
これを証明せよ。

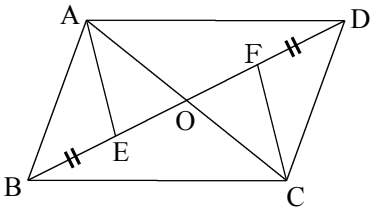

（仮定）

（結論）

（証明）

月　　日　　曜日

証明確認テストー８　名前

⑧平行四辺形ＡＢＣＤの
ＢＥ＝ＤＦとなるよう
に２点Ｅ，Ｆをとると
ＡＥ＝ＣＦとなります。
これを証明せよ。

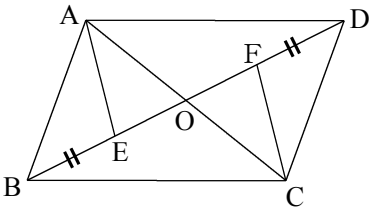

（仮定）

（結論）

（証明）