中1理科1 NO6

とつレンズと光の進み方

光軸に平行な光の進み方

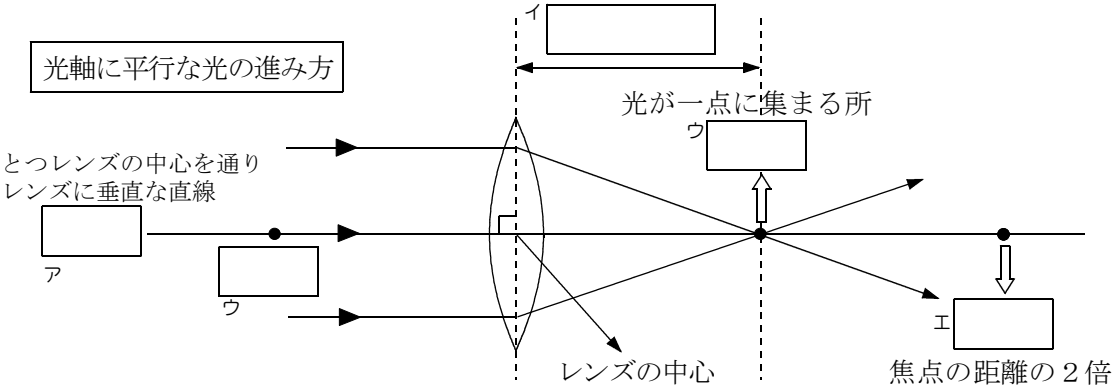

・凸レンズには＿＿＿＿＿＿＿＿。＿＿＿＿＿＿＿＿。
オ　カ

・凸レンズを通る光は，ガラスの＿＿＿＿＿＿＿＿。
キ

・厚いレンズほど＿＿＿＿＿＿＿＿。
ク

① レンズの中心を通る光線の進み方

ケ

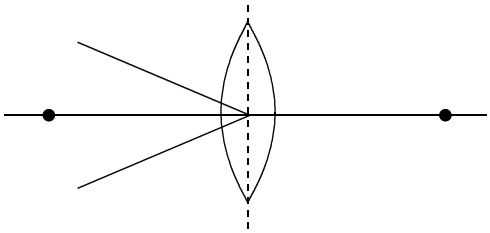

② 光軸と平行な光線の進み方

コ

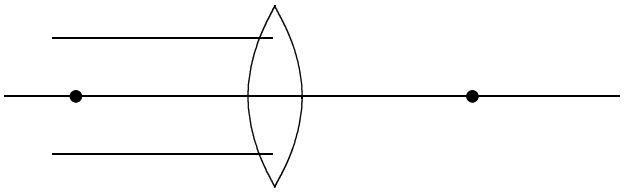

② 焦点を通った光線の進み方
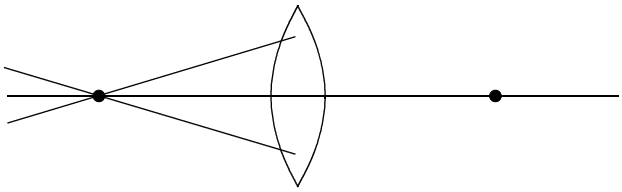
サ