中2理科2NO16　生物の特徴と生活の場所の関係

ア［　　］から イ［　　］の生活に適したものに進化している！

ウ［　　］の年代の エ［　　］順！

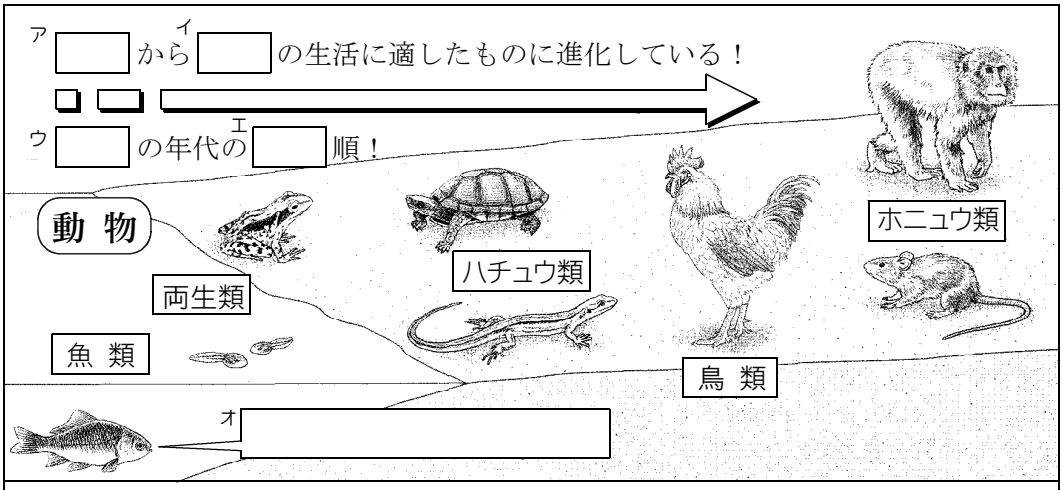

オ［　　］

カ	
キ	ク
ケ	コ
サ	シ
ス	セ

ソ　生物が，長い時間をかけて____に適するように変化することを_____という。

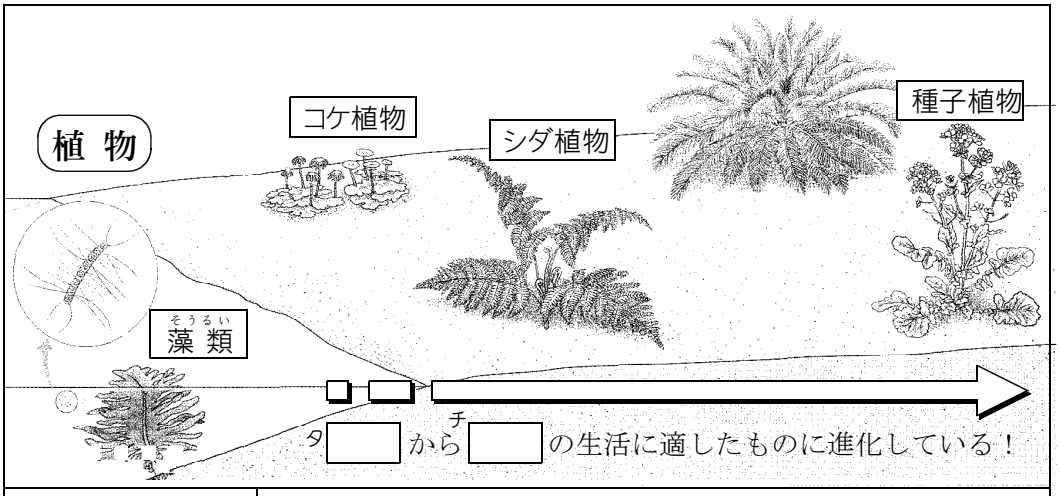

タ［　　］から チ［　　］の生活に適したものに進化している！

水中で生活	陸上で生活
ツ	テ
ト	ナ
ニ	ヌ

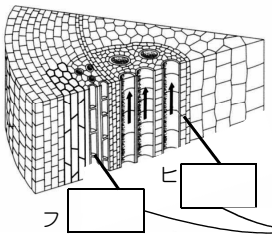

ネ［　　］…根から吸い上げた_____

ノ［　　］…葉でつくられた_____

ハ［　　］…_____が集まって束のようになった部分

ヒ［　　］

フ［　　］